**Lê com atenção cada uma das questões que te são apresentadas e responde ao que te é pedido.**

## GRANDES ETAPAS DA HISTÓRIA DA TERRA

**1 –** Ordena cronologicamente cada uma das afirmações que se segue:

A – Os dinossauros dominam os continentes
B – Primeiros répteis
C – Aparecimento da vida
D – Seres vivos vertebrados muito simples
E – Extinção em massa que matou os dinossauros
F – Os mamíferos dominam a fauna
G – Aparecimento das primeiras aves e mamíferos
H – Primeiras plantas terrestres
I – Grande diversidade de vida marinha
J – Seres vivos pluricelulares, invertebrados
K – Grandes florestas cobrem os continentes
L – Aparecimento das plantas com flor
M – Aparecimento do Homem
N – Extinção em massa de muitas espécies marinhas

**Ordem:** _____

**2 –** Indica a que era geológica pertencem as afirmações:

**2.1 –** L )_____

**2.2 –** I )_____

**2.3 –** K )_____

**2.4 –** G)_____

**3 –** Identifica a Era geológica que se identifica com cada uma das afirmações

**3.1 –** Era dos dinossauros._____

**3.2 –** Era em que viveram as trilobites._____

**3.3 –** Era dos peixes._____

**3.4 –** Era dos mamíferos. _____

**3.5 –** Era em que viveram as amonites._____

**4 –** Observe atentamente cada uma das imagens que se seguem.

**4.1 –** Indica a que Era pertence cada uma das imagens



_____ _____

_____ _____

**4.2 –** Explica porque é que a imagem seguinte está cientificamente incorreta. Não te esqueças de apresentar uma resposta completa.

_____

_____

_____

_____

_____

_____

**5 –** Indica qual foi o acontecimento que marcou:

**5.1 –** O início da Era Paleozóica _____

**5.2 –** O final da Era Paleozóica _____

**5.3 –** O início da Era Cenozóica _____

## TEORIA DA DERIVA CONTINENTAL

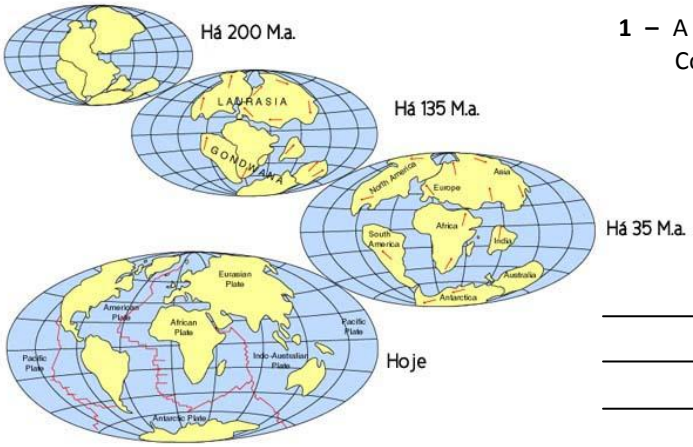


**1 –** A teoria representada na figura é a Teoria da Deriva Continental. Resume-a por palavras tuas.

_____

_____

_____

_____

_____

_____

_____

_____

**2 –** Como se chamava o cientista que propôs esta teoria? _____

**3 –** Segundo este cientista, como se chamava o continente único que existia na Terra há 200 M.a.? _____

**3.1 –** E o oceano? _____

**4 –** Explica porque é que esta teoria não foi logo aceite na época.

_____

_____

_____

**5 –** Identifica o tipo de argumentos a favor desta teoria que se encontram representados em cada figura e texto.

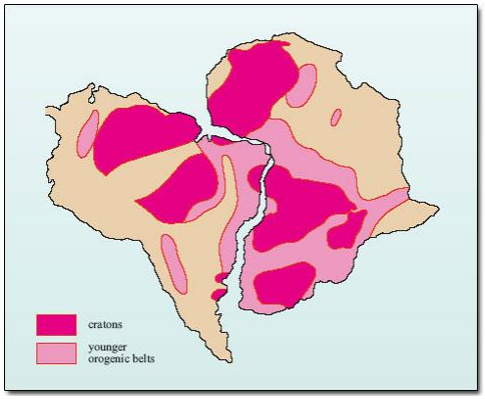


*Há rochas com as mesmas características e a mesma idade na América do Sul e em África.*

Argumento: _____

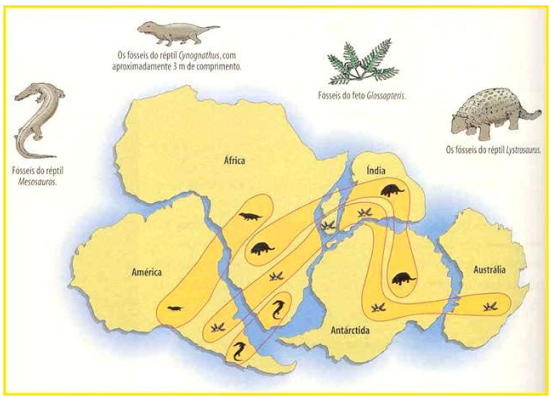


*Foram identificados fósseis das mesmas espécies em continentes que hoje se encontram muito longe uns dos outros.*

Argumento: _____

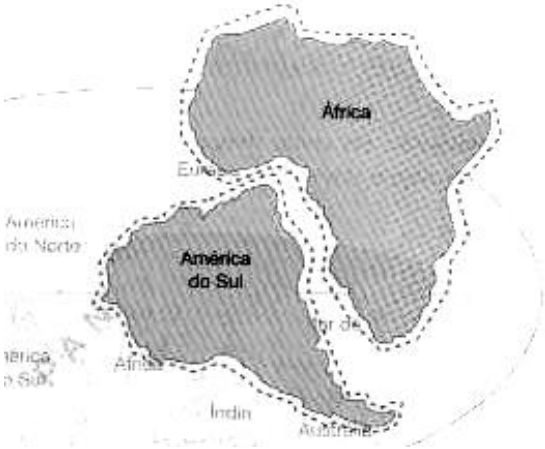


*A linha de costa dos vários continentes é complementar, como peças de um puzzle.*

Argumento: _____

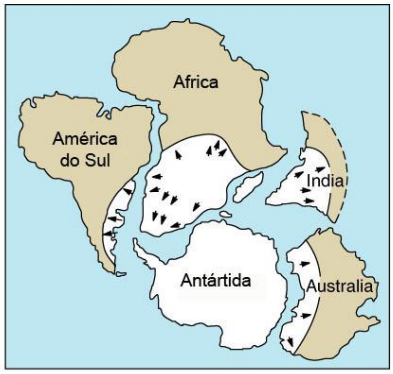


*Foram identificados vestígios de glaciares em continentes que hoje se encontram separados e com climas mais quentes.*

Argumento: _____

A professora:

Ana Rita Rainho